18 見やすく整理して表そう

さい近，学校で起きたけがのしゅるいを，先生が読み上げています。

正の字を書く時に，しゃ線を入れていこう。

すりきず	切りきず	打ぼく	すりきず	ねんざ	打ぼく	すりきず
打ぼく	すりきず	切りきず	すりきず	打ぼく	すりきず	切りきず
ねんざ	打ぼく	すりきず		すりきず	打ぼく	切りきず
すりきず	ねんざ	すりきず		打ぼく	すりきず	打ぼく
すりきず	すりきず				打ぼく	切りきず



30しゅるい

1 上のけがのしゅるいとそれぞれの人数を，表に整理してわかりやすく表しましょう。

1 「正」の字を使って人数を調べ，下のあの表に書きましょう。

2 「正」の字を使って表した数を数字になおし，下のいの表に書きましょう。

あ

すりきず	正正下
切りきず	正
打ぼく	正下
ねんざ	下

1人…一
2人…下
3人…下
4人…下
5人…正

30「正」の字が書けてますか？

い

けがのしゅるいと人数

しゅるい	人数(人)
すりきず	13
切りきず	5
打ぼく	9
ねんざ	3
合計	30

3 「合計」が全体の人数と合っているかたしかめましょう。

4 いちばん多いけがは何ですか。 答え，すりきず

1 右のグラフの1めもりは，何人を表していますか。 答え 1人

2 それぞれのけがの人数は何人ですか。 答え 切りきず5人

すりきず13人

3 打ぼくの人数は，ねんざの人数より何人多いですか。

また，打ぼくの人数は，ねんざの人数の何倍ですか。 答え 6人

打ぼく9人
ねんざ3人

3倍

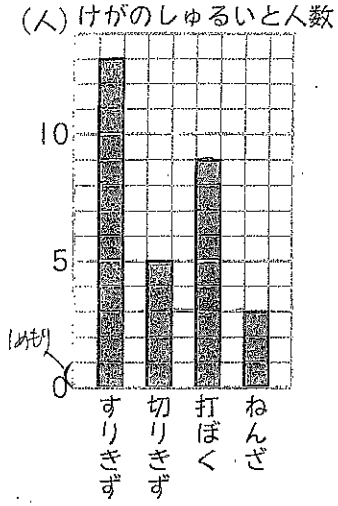

ま

ぼうの長さで大きさを表したグラフを，[ぼうグラフ]といいます。ぼうグラフに表すと，何が多くて何が少ないかひと目でわかります。

2 右のグラフは，りえさんが先週家で読書をした時間を表したものです。グラフをよみましょう。

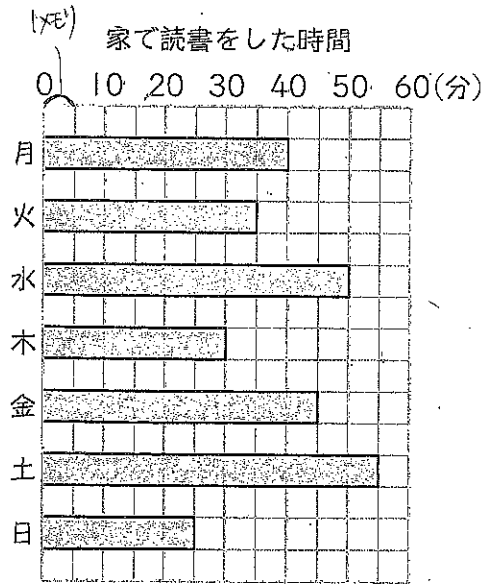

1 グラフの1めもりは，何分を表していますか。 答え 5分

2 読書をした時間を，曜日のじゅんにいいましょう。 月40分 火35分 水50分 木30分 金45分 土55分 日25分

曜日のように，じゅんじょが決まっているときは，大きいじゅんにならべないこともあるよ。